Всероссийская олимпиада школьников по географии
Муниципальный этап 2019/2020 учебного года

7 Класс

ТЕСТЫ

1.Как называется самая крупная (пятитомная) работа выдающегося немецкого географа-энциклопедиста Александра Гумбольдта (1769 — 1859 гг.), в которой он предпринял попытку обобщить все достижения современных ему наук о Земле?
а) Вселенная б) Земля в) Космос г) Планета д) Океан

2. В какой горной стране мира наблюдается самый богатый спектр высотной поясности?
а) Аппалачи б) Каракорум в) Кунь-Лунь
г) северный склон Гималаев д) Эквадорские Анды

3. Какой остров отделяется от материка проливом Г.И. Невельского?
А) Мадагаскар
Б) Врангеля
В) Сахалин
Г) Русский

4. Выберите климатограмму, описывающую годовой ход температуры и осадков, в субэкваториальном поясе южного полушария.

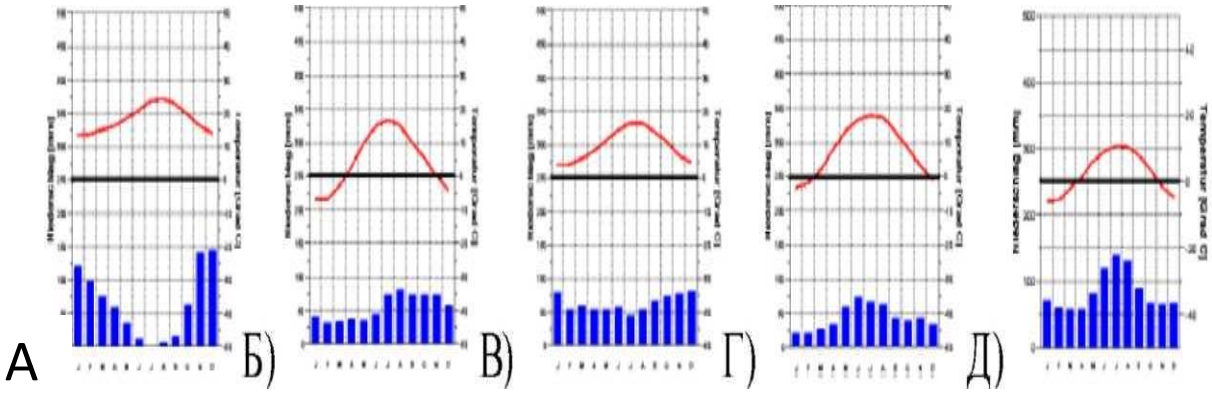

5. На притоке какой реки находится высочайший водопад в Мире?
а) Парана; г) Ориноко;
б) Замбези; д) Конго;
в) Меконг; е) Ниагара.

6. Кем была предложена картографическая проекция, которой мы пользуемся до сих пор?
а) Меркатором; в) Птолемеем;

б) Эратосфеном; г) Пифагором.

7. В каком варианте правильно указаны координаты крайней северной материковой точки России?
а) 66° с.ш. 169° з.д.; в) 77° ю.ш. 105° в.д.;
б) 70° с.ш. 30° з.д.; г) 45° с.ш.45° в.д.

8. Кто впервые точно измерил диаметр Земли?
а) Эратосфен; г) Меркатор;
б) Бируни; д) Ортелий.
в) Птолемей

9. В какой части Индийского океана солёность воды наибольшая?
а) в Аравийском море; б) в Бенгальском заливе;
в) в Красном море; г) в Персидском заливе.

10. На какой из перечисленных параллелей продолжительность полярного дня наименьшая?
а) 60° с.ш.; б) 80° ю.ш.;
в) 70° ю.ш.; г) 85° с.ш.

11. На каком материке низменности занимают наибольшую долю его площади?
а) Северная Америка;
б) Южная Америка;
в) Евразия;
г) Африка.

12. Надводной частью срединно-океанического хребта является остров
а) Гренландия; б) Мадагаскар;
в) Исландия; г) Ньюфаундленд.

13. На побережье какого из океанов действие внутренних сил Земли выражено наиболее явно?
а) Тихого;
б) Северного Ледовитого;
в) Атлантического;
г) Индийского.

14. Влияние Тихого океана на климат дальнего Востока наиболее отчётливо выражено
а) весной; б) летом;
в) осенью; г) зимой.

15. Расставьте материки по мере убывания отметок их абсолютной высоты.
а) Австралия; б) Евразия; в) Африка;
г) Северная Америка; д) Южная Америка.

16. Расставьте страны Европы в порядке возрастания их площади.
а) Франция б) Нидерланды в) Украина г) Швеция д) Германия

17. Субъекты РФ, административные центры которых являются вторыми по численности населения городами своих регионов:
а) Вологодская область; б) Кемеровская область;
в) Оренбургская область; г) Ханты-Мансийский АО;
д) Ямало-Ненецкий АО.

18. Наивысшая отметка высот в Хабаровском крае:
а) г. Топко; б) г. Тордоки-Янги; в) г. Берилл; г) г. Город-Макит; д) г. Ко.

19. Какие горные системы из перечисленных расположены на территории Хабаровского края
а) Джугджур б) Сунтар-Хаята
в) Сихотэ-Алинь г) Восточный Саян

20. На контурной карте буквами обозначены заливы, омывающие берега Хабаровского края. Какой буквой на карте обозначена Удская губа?

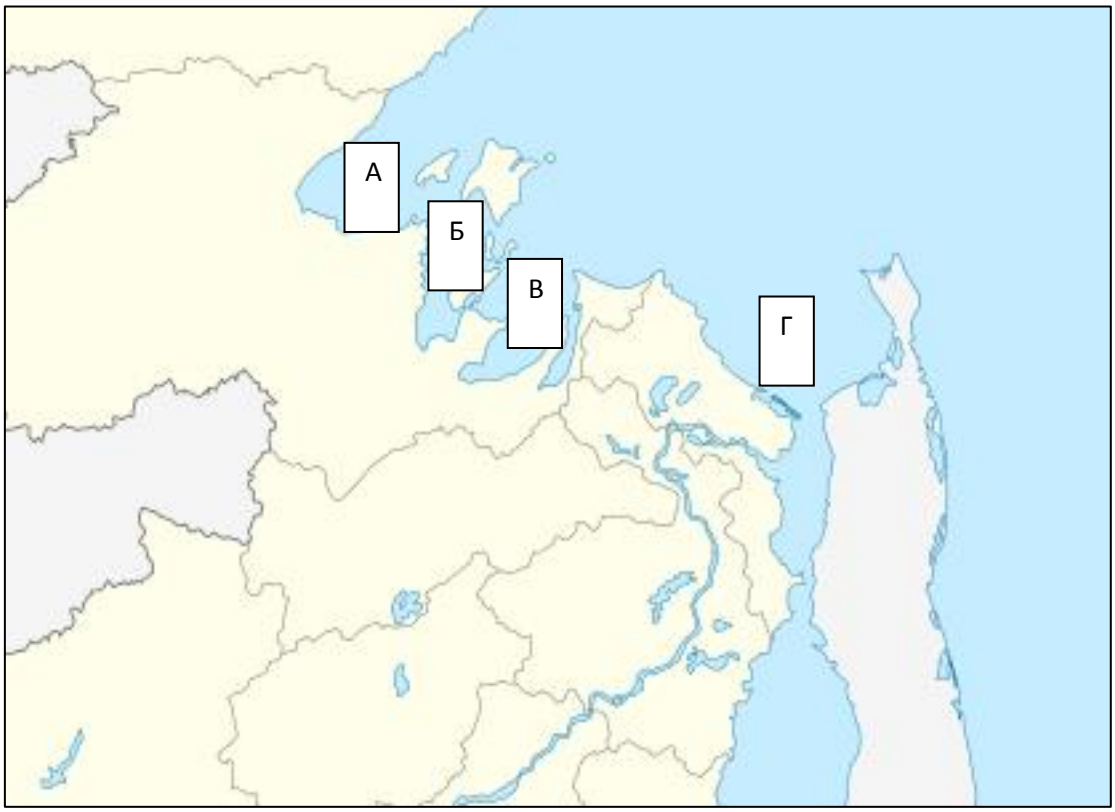

Задания теоретического тура

Задание 1. Найдите на топографической карте (**в приложении**) условные знаки, указные в списке. Обведите условный знак на карте и напишите рядом его соответствующий номер.

Список условных знаков:

1. Завод
2. Направление реки
3. Смешанный лес
4. Фруктовый сад на западе от березового леса
5. Самая высокая точка на западе от соснового леса
6 . Урез воды р. Андога

Внимание! *На карте могут встречаться несколько одинаковых топографических знаков, поэтому на Вашей карте могут быть несколько одинаковых цифр.*

Задание 2. На рисунке представлена карта маршрутов трёх кругосветных экспедиций знаменитого мореплавателя, который он совершил в период с 1768 по 1779 гг.

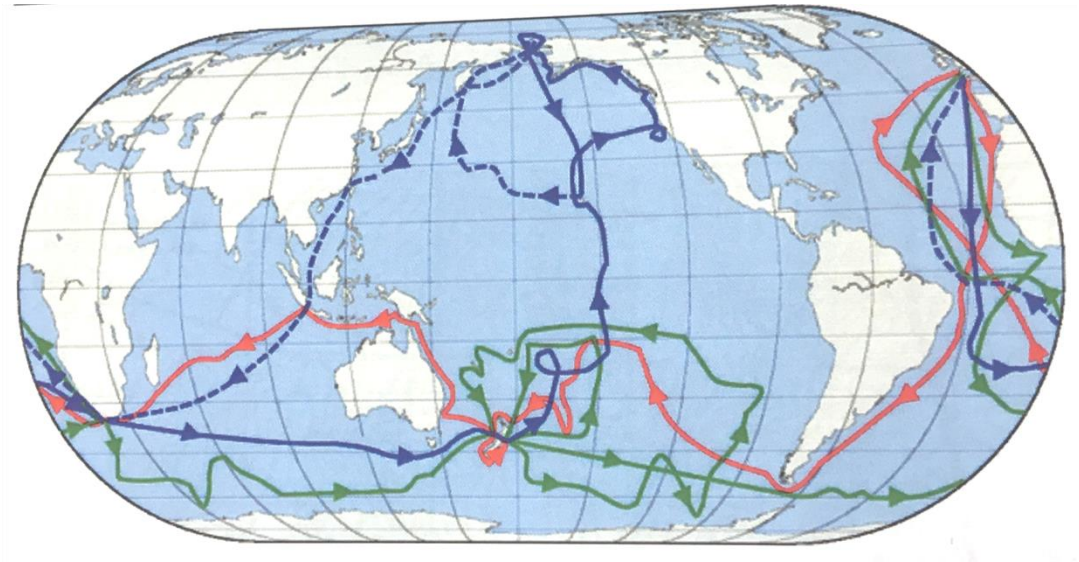

1) Маршруты какого мореплавателя представлены на карте?
2) Какой архипелаг был открыт третьей экспедицией? Почему после посещения этого архипелага маршрут экспедиции показан пунктиром?
3) Какую основную цель (которая в итоге не была выполнена) ставил перед второй экспедицией её руководитель?
4) В процессе первой экспедиции были нанесены на карту два крупных острова, которые ныне составляют единое государство и разделены проливом, названным в честь этого путешественника.
5) Назовите национальную принадлежность этого мореплавателя

а) англичанин; б) нидерландец; в) испанец; г) итальянец.

6) Почему кругосветное путешествие в наши дни можно совершить по гораздо более короткому маршруту?
7) Определите о каких кругосветных путешествиях, совершенных до XIX века идет речь в приведенных ниже описаниях (назовите имена возглавлявших их мореплавателей).
   А) Первое в истории человечества кругосветное плавание.
   Б) Кругосветное путешествие, в честь руководителя которого назван самый широкий в мире пролив.
   В) Первое русское кругосветное путешествие.
8) Какой классик французской литературы в одном из своих романов описывает вымышленное кругосветное путешествие, которое проходит менее, чем за три месяца?

Задание 3. Спортивные сооружения Прибрежного кластера олимпийских объектов в Сочи строились по кругу диаметром 1,05 км. Какой максимальный масштаб можно использовать для составления плана кластера на листе бумаги размером 210х297 мм?

Какой масштаб использовался на рекламном щите, если дворец зимнего спорта «Айсберг», имеющий в плане квадрат (сторона 78 м), занимает на нём площадь 676 см2?

Задание 4. Ниже представлены шесть мировых достопримечательностей мира. Определите эти достопримечательности, внесите номер фотографии в таблицу ниже, заполните графу «Местоположение», указав страну, материк, где находится объект.

1.	2.	3.
4.	5.	6.

№ фото	Достопримечательности	Местоположение
	Оперный театр	Страна: Материк:
	Пирамиды	Страна: Материк:
	Великая стена	Страна: Материк:
	Статуя Свободы	Страна: Материк:
	Статуя Христа Искупителя	Страна: Материк:
		Страна: Материк:

Задание 5. В Хабаровском крае объявлен конкурс на лучший туристический маршрут. Используя предложенный фрагмент карты, составьте рекламный проспект маршрута с указанием мест посещения, форм передвижения и времени. Опишите его привлекательность. Придумайте рекламный слоган.

Лист-вкладка 1

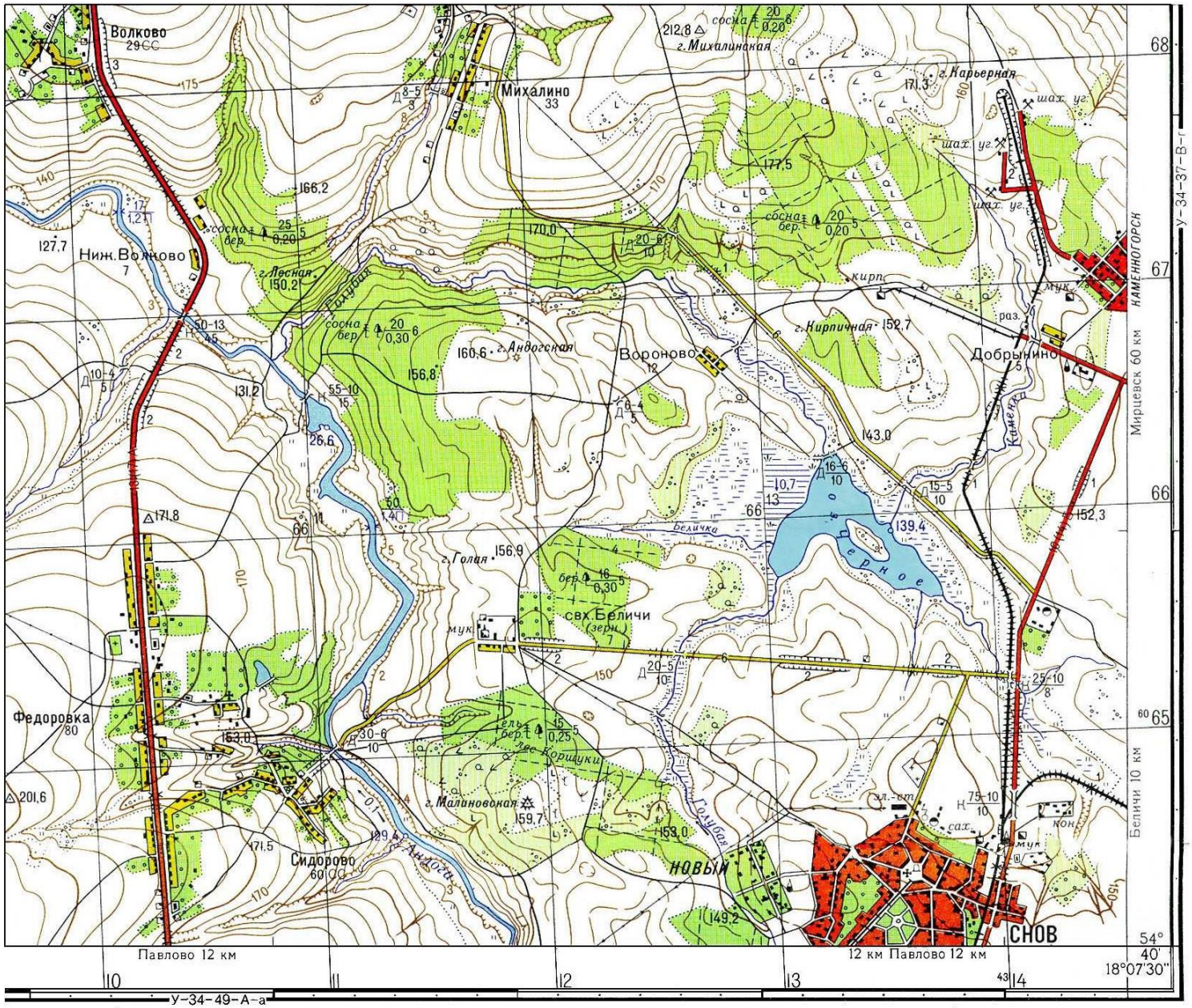

Фрагмент учебной топографической карты

7 класс

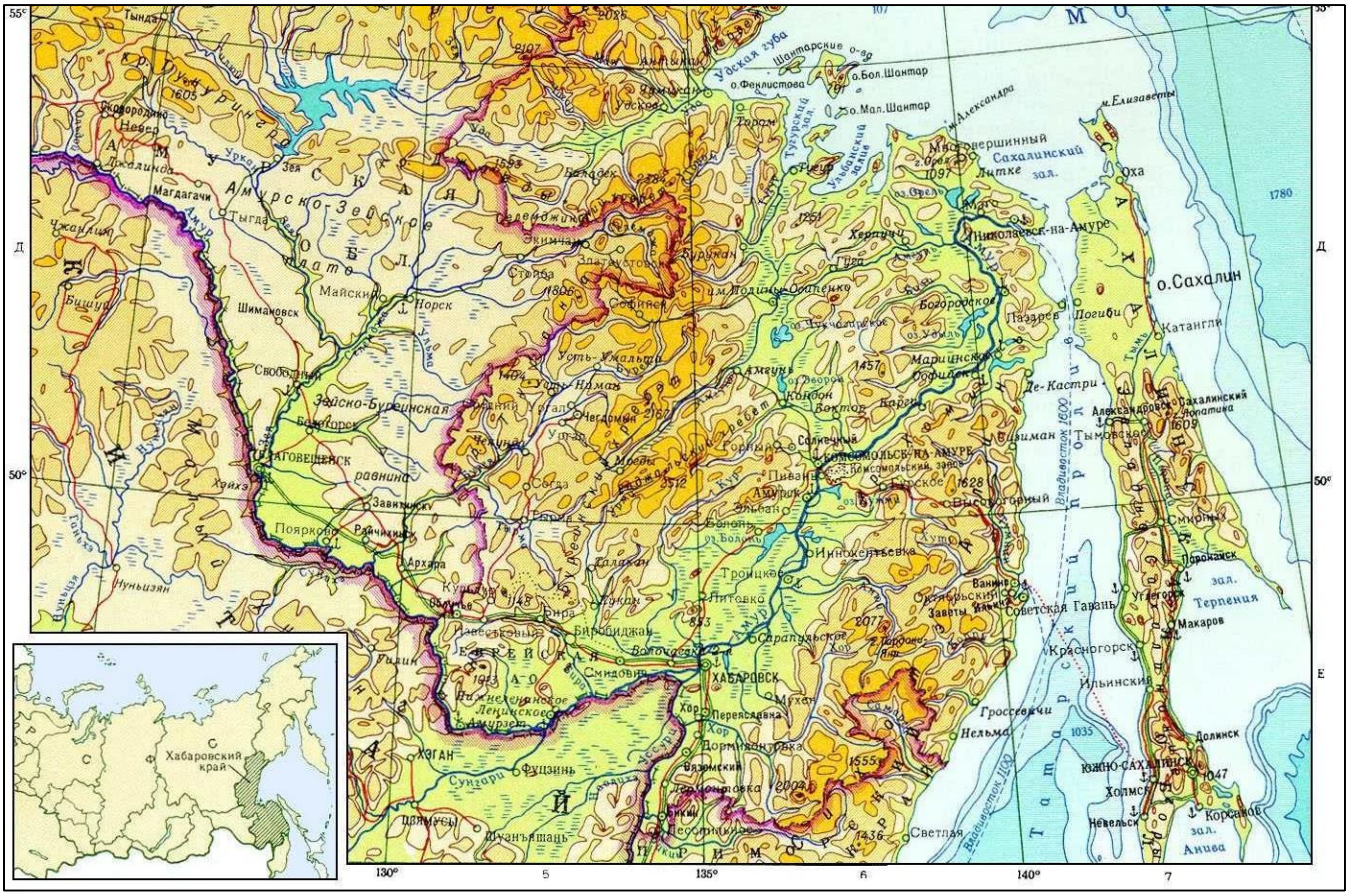
Хабаровский край
о.Сахалин
Николаевск-на-Амуре
Комсомольск-на-Амуре
ХАБАРОВСК
БЛАГОВЕЩЕНСК
Биробиджан
Советская Гавань
Южно-Сахалинск
Сахалинский зал.
Удская губа
Шантарские о-ва
зал. Терпения
зал. Анива
Александровск-Сахалинский
Оха
Холмск
Корсаков
Невельск
Долинск
Макаров
Зейско-Буреинская равнина
Амурско-Зейское плато
130°
135°
140°
50°
55°